Guía para el estudiante



Capacidad y peso

Guía realizada por
Yenny Marcela Naranjo Naranjo
Máster en Educación Matemática
yennymarce3@gmail.com

Capacidad y peso

Nombre: _____ Fecha: _____ Curso: _____

1. Antes de iniciar tu actividad identifica ¿cuál elemento pesa más?



Respuesta

_____

_____



Respuesta

_____

_____

Capacidad y peso

Respuesta

Respuesta

Respuesta

Ir a la tienda

No olvides que debes llevar el material asignado por el docente para la actividad.

2. En la tienda de Leovigildo es necesario que tu uses las bolas o midas los litros que necesitas comprar. Tu mamá te manda a hacer un pequeño mercado, debes realizar las respectivas medidas.

- 500 g de arroz
- 750 g de azúcar
- 1000 g de sal
- 3 g de chocolate
- 3 ½ litros de leche
- 2 litros de Yogurt
- 4 ½ litros de agua

Observa los instrumentos con los que debes realizar las respectivas mediciones

Pesa

Garrafa de Litro

3. Después de realizar el mercado contesta las siguientes preguntas.

- ¿Qué pesa más 500g de arroz o una libra? ¿por qué?

- ¿Qué tiene mayor capacidad ¾ litro de agua o ½ litro de agua?

- ¿Qué pesa menos 1000 g de azúcar o ½ kilo de azúcar?

- ¿Cuál tiene mayor capacidad ½ litro de yogurt o 500 cm^3?

• Si hay un envase que contiene ¾ de leche y otro 450 cm^3 ¿Cuál tiene mayor capacidad?

_____

_____

_____

Autoevalúate

Después de desarrollar la actividad no olvides realizar tu autoevaluación.

Criterios	Lo logré	Tengo que mejorar	No lo logré
1. Establece características de peso y capacidad.			
2. Establece el peso de un objeto y la capacidad de un recipiente.			
3. Emplea las unidades de medida de capacidad y peso de acuerdo con la situación.			

Guía para el estudiante

Bogotá - Colombia
www.compartirpalabramaestra.org